SOLUCIÓN EJERCICIO PARA EL DÍA 18 DE MARZO DE 2020.

Indica el dominio y el recorrido de cada una de estas funciones representadas gráficamente.

A	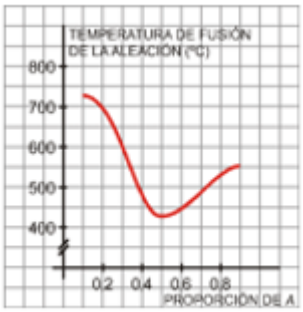	DOMINIO Desde 0,1 a 0,9 RECORRIDO Desde 425 a 725
B	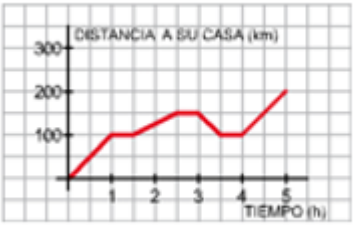	DOMINIO Desde 0 a 5 RECORRIDO Desde 0 a 200
C	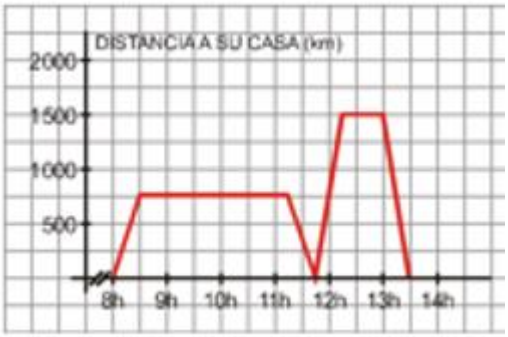	DOMINIO Desde las 8 hasta las 13,5 RECORRIDO Desde 0 hasta 1500
D	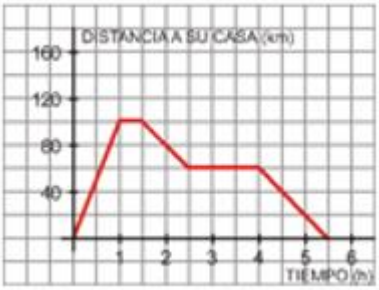	DOMINIO Desde 0 hasta 5,5 RECORRIDO Desde 0 hasta 100
E		DOMINIO Desde 9 hasta 21 RECORRIDO Desde 0 hasta 500